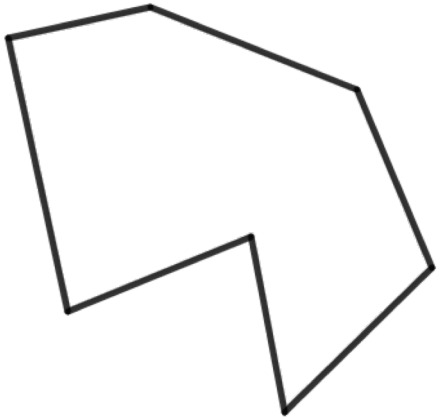

Polycroque

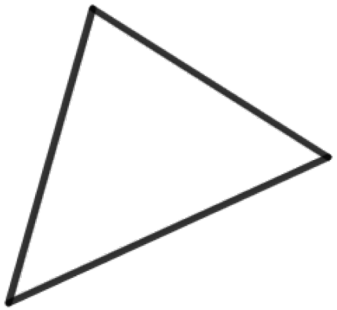

2 et +

Chaque joueur pioche une carte chacun à son tour. S'il répond juste à la question, il peut tracer un côté d'un carreau sur le plateau. Quand un joueur ferme un carreau, il inscrit son initiale dedans.

Chaque carreau vaut un point.
Les carreaux avec les coupes valent 2 points.

Le joueur ayant eu le plus grand nombre de carreaux a gagné.

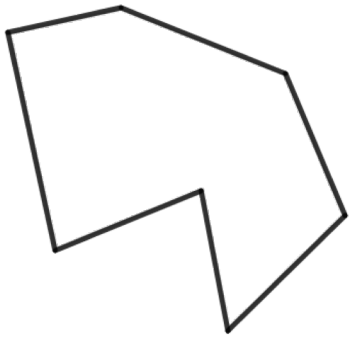

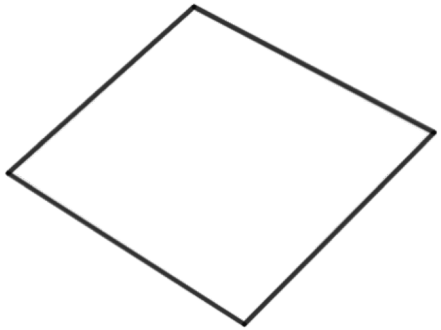

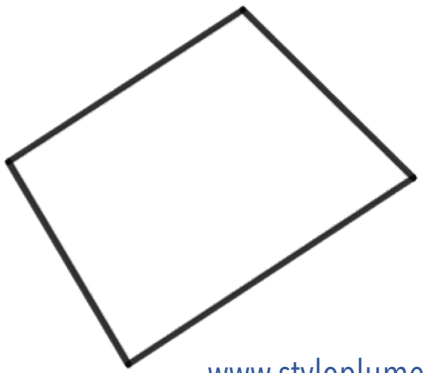

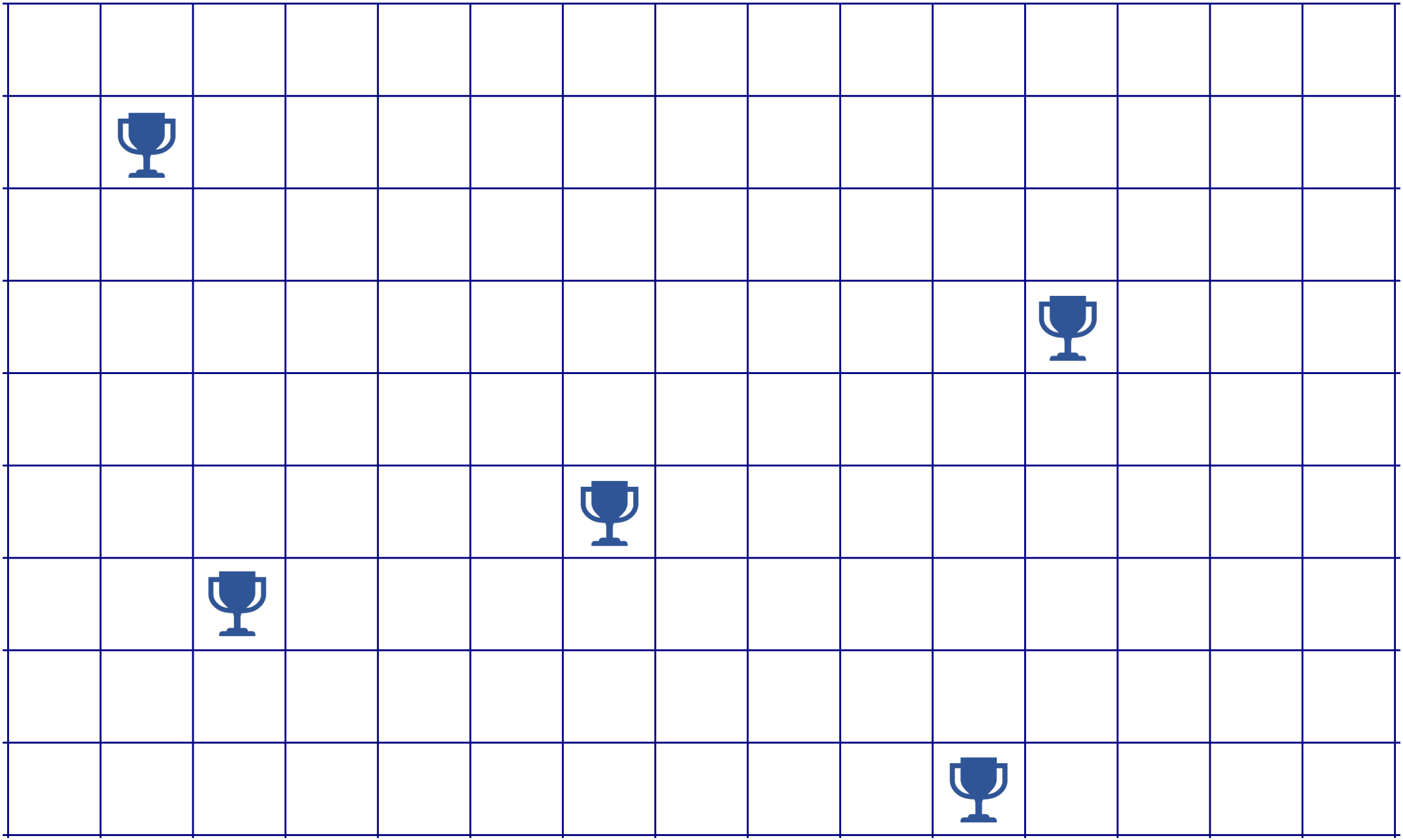

www.styloplumeblog.fr

1

J'appartiens à la famille des

_____

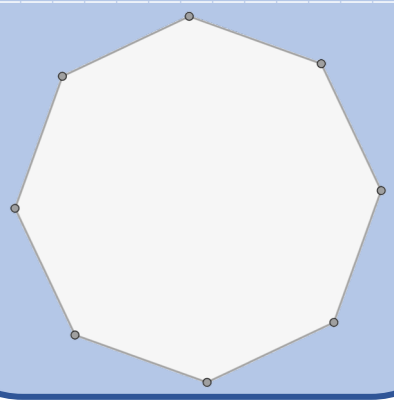

2

J'appartiens à la famille des

_____

3

J'appartiens à la famille des

_____

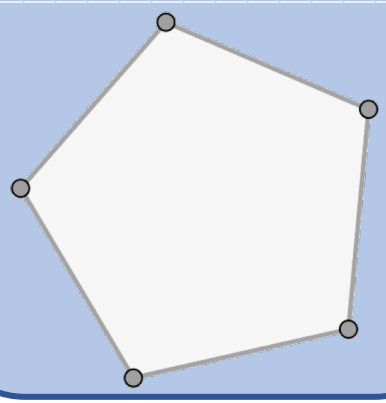

4

J'appartiens à la famille des

_____

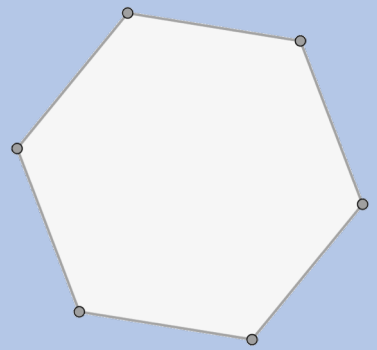

www.styloplumeblog.fr

5

J'appartiens à la famille des

_____

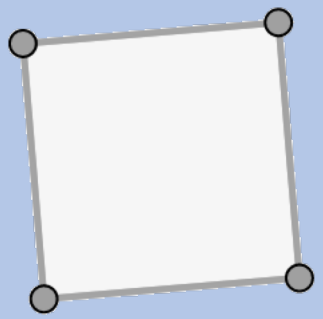

6

J'appartiens à la famille des

_____

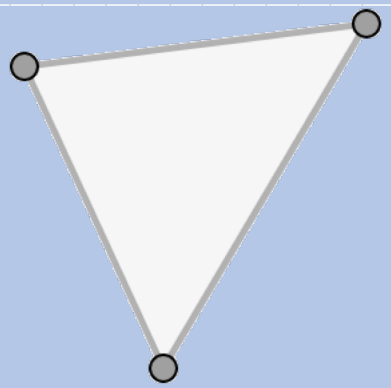

7

J'appartiens à la famille des

_____

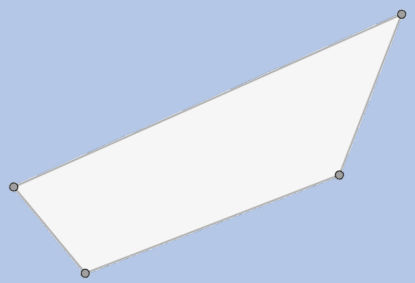

8

J'appartiens à la famille des

_____

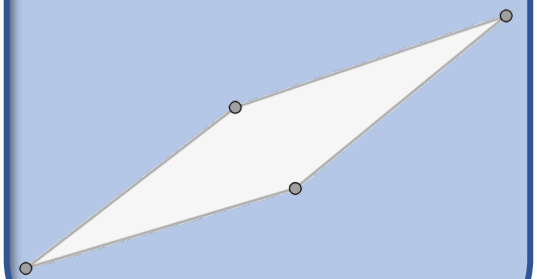

9

J'appartiens à la famille des

_____

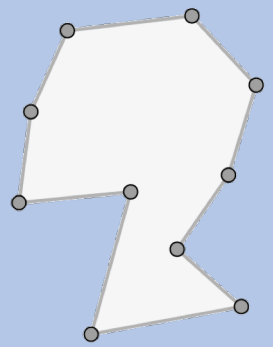

10

J'appartiens à la famille des

_____

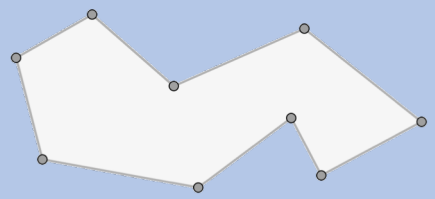

11

J'appartiens à la famille des

_____

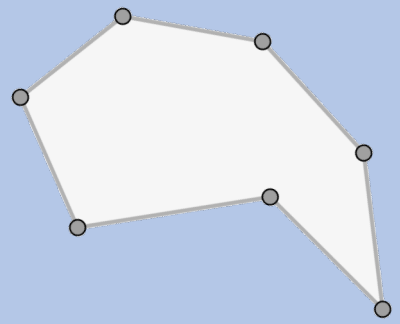

12

J'appartiens à la famille des

_____

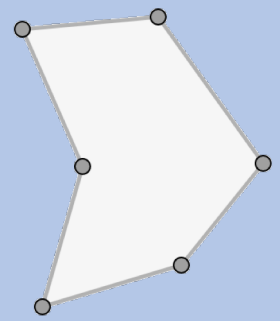

www.styloplumeblog.fr

13

J'appartiens à la famille des

_____

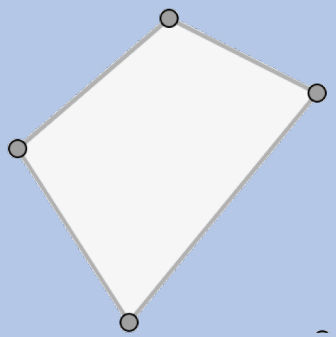

14

J'appartiens à la famille des

_____

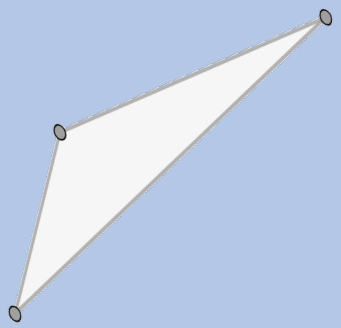

15

J'appartiens à la famille des

_____

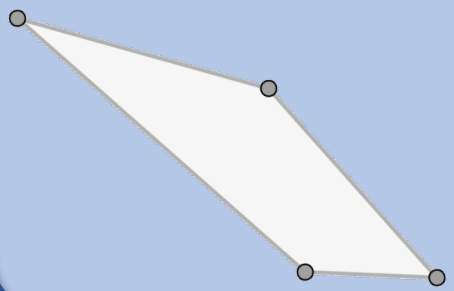

16

J'appartiens à la famille des

_____

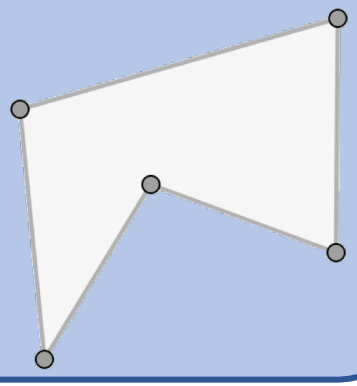

17

Je possède 3 côtés, 3 sommets et 3 angles. J'appartiens à la famille des

_____

18

Je possède 4 côtés, 4 sommets et 4 angles. J'appartiens à la famille des

_____

19

Je possède 5 côtés, 5 sommets et 5 angles. J'appartiens à la famille des

_____

20

Je possède 6 côtés, 6 sommets et 6 angles. J'appartiens à la famille des

_____

www.styloplumeblog.fr

21

Je possède 7 côtés, 7 sommets et 7 angles. J'appartiens à la famille des

_____

22

Je possède 8 côtés, 8 sommets et 8 angles. J'appartiens à la famille des

_____

23

Je possède 9 côtés, 9 sommets et 9 angles. J'appartiens à la famille des

_____

24

Je possède 10 côtés, 10 sommets et 10 angles. J'appartiens à la famille des

_____

25

Suis-je un polygone?
Pourquoi?

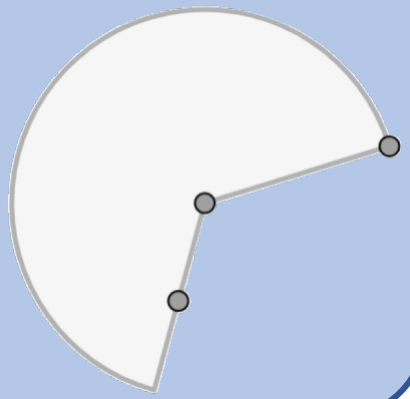

26

Suis-je un polygone?
Pourquoi?

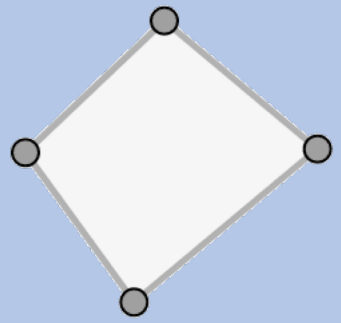

27

Suis-je un polygone?
Pourquoi?

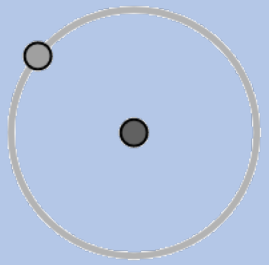

28

Suis-je un polygone?
Pourquoi?

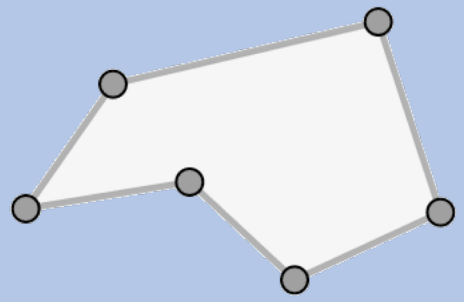

www.styloplumeblog.fr

29

Suis-je un polygone?
Pourquoi?

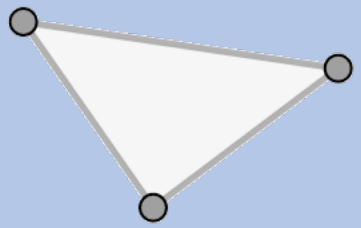

30

Suis-je un polygone?
Pourquoi?

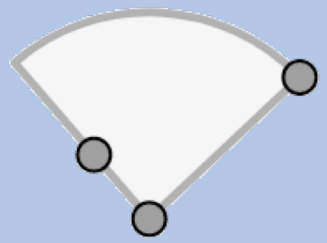

31

Suis-je un polygone?
Pourquoi?

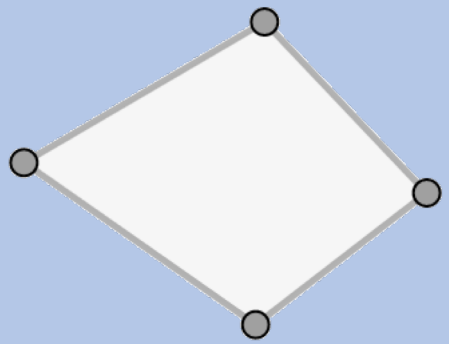

32

Suis-je un polygone?
Pourquoi?

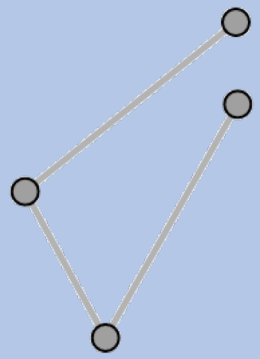

Polycroque Correction

1 Octogones	2 Triangles	3 Pentagones	4 Hexagones	5 Quadrilatères	6 Triangles	7 Quadrilatères	8 Quadrilatères
9 Décagones	10 Ennéagones	11 Heptagones	12 Hexagones	13 Quadrilatères	14 Triangles	15 Quadrilatères	16 Pentagones
17 Triangles	18 Quadrilatères	19 Pentagones	20 Hexagones	21 Heptagones	22 Octogones	23 Ennéagones	24 Décagones
25 Non	26 Oui	27 Non	28 Oui	29 Oui	30 Non	31 Oui	32 non